平成27年度

藤蔭高等学校　後期入学試験問題

社　　会　（ 50分 ）

試験開始の合図があるまで，この「問題」を開かず，下記の注意事項をよく読んでください。

注　意　事　項

1．試験中は，わき見をしたり，勝手に話をしてはいけません。道具の貸し借りもしてはいけません。不正行為のないように注意してください。

2．試験中の途中退場はできません。

3．試験中，気分が悪くなった人は，黙って手をあげてください。

4．問題用紙と解答用紙は別々の用紙です。答は解答用紙に書いてください。解答用紙には受験番号と名前をはっきり書いてください。

5．問題に脱落や印刷の不鮮明な部分などがあったら，黙って手をあげてください。

6．試験が終ったら，解答用紙は裏にして机の上に置いてください。問題用紙は持ち帰ってください。

受　験　番　号	名　　前

【１】　ゆうきさんは，夏休みの自由研究で，「海に囲まれた日本」をテーマに調べ学習をし，発表することになりました。次の文は，そのときの原稿です。各問いに答えなさい。

> ７月の第３月曜日は，「海の日」です。世界の中でこの日を国民の祝日としている国は日本だけです。日本の国土面積は，世界第６１位です。しかし，日本の領海と経済水域についてみると，その面積は国土のおよそ１２倍になり，世界第６位の広さがあります。また，a 日本の海岸線は，地球全周にせまる約３万５千㎞にもなります。
>
> 島国である日本は，新鮮なｂ魚介類など「海の幸」に恵まれ，豊かな食文化を発展させてきました。今でも，日本では，動物性タンパク質の約４割を魚介類からとっています。
>
> 一方，私たちは，はるか昔から外国の文化の伝来をはじめ，人の往来やｃ物の輸送，産業，生活などの各分野にわたり海と深く関わってきました。
>
> 海は世界と日本を結ぶ道であり，海上輸送は，私たちの生活を支え，加工貿易立国である日本の産業を発展させてきました。
>
> 現在，日本の周りの海では，海洋汚染やｄ漁獲量の減少など様々な問題が起こっています。今後も日本と海の関わりについて考えていこうと思います。

問１　下線部ａについて，**図Ⅰ**は，海に面したある都市の衛星画像である。この画像に見られるような河口付近に形成された特徴ある地形を何というか，答えなさい。

図Ⅰ

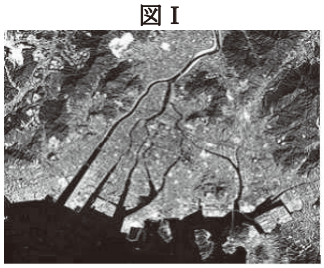

問２　下線部ｂについて，**図Ⅱ**は，水揚げ量の多い代表的な漁港を示している。①・②の問いに答えなさい。

①　**図Ⅱ**中のＡ海岸の沖は，好漁場となっている。この海岸を何というか，答えなさい。

②　次の表は，**図Ⅱ**中に示した漁港が位置する４つの都道府県についてまとめたものである。銚子港の位置する都道府県名を答えなさい。また，その都道府県にあたるものを，表中の**ア～エ**から１つ選び，記号で答えなさい。

図Ⅱ

	漁獲生産高（2007年）	農業生産額のおもな内訳（2008年）				製造品出荷額等（2008年）
		米	野菜	果実	畜産	
ア	3114	1255	1786	66	5057	59806
イ	853	261	464	94	2383	20812
ウ	567	576	623	671	813	16599
エ	297	774	1652	168	1053	155080

（単位：億円）

問３　下線部ｃについて，次の表は，輸出入額上位４位の港（空港）についてまとめたものである。表中の［Ａ］～［Ｄ］にあてはまる品目を**ア～エ**からそれぞれ選び，記号で答えなさい。

港（空港）	輸出額（百万円）	主要輸出品の輸出額に占める割合（%）	輸入額（百万円）	主要輸入品の輸入額に占める割合（%）
成田国際空港	8296660	［Ａ］(9.8)科学光学機器(7.0) 映像記録・再生機器(5.0) 電気回路用品(3.9)	8492042	［Ａ］(12.5)，医薬品(7.9) 科学光学機器(7.1) コンピュータ(7.0)
東京港	3645548	コンピュータ部品(9.5) プラスチック(6.3) 自動車部品(5.6) 科学光学機器(3.7)	6649965	衣類(8.4)，コンピュータ(6.1) ［Ｂ］(5.9)，肉類(5.2)
名古屋港	6766541	［Ｃ］(26.1)，自動車部品(15.2) 内燃機関(4.2)，鉄鋼(3.1)	3210935	液化ガス(11.3)，［Ｄ］(10.2) 衣類(8.0)，アルミニウム(4.2)
横浜港	550798	［Ｃ］(19.2)，自動車部品(6.0) プラスチック(4.2) 内燃機関(4.1)	2743862	［Ｄ］(10.5)，液化ガス(7.1) 衣類(4.8)，アルミニウム(3.5)

（「日本国勢図会2010/11年版から作成」）

ア　自動車　　**イ**　石油　　**ウ**　魚介類　　**エ**　集積回路

問４　下線部ｄについて，①・②の問いに答えなさい。

①　右の図は，日本の漁業における沿岸漁業，遠洋漁業，沖合漁業，海面養殖業の漁獲量と魚介類の輸入量の合計の推移を示したものである。輸入量にあてはまるものを，**ア～エ**から１つ選び，記号で答えなさい。

②　漁獲量を増やすための取り組みの一つで，たまごからふ化させて稚魚，稚貝をある程度まで育てたあと，自然の海や川に放す漁業を何というか，答えなさい。

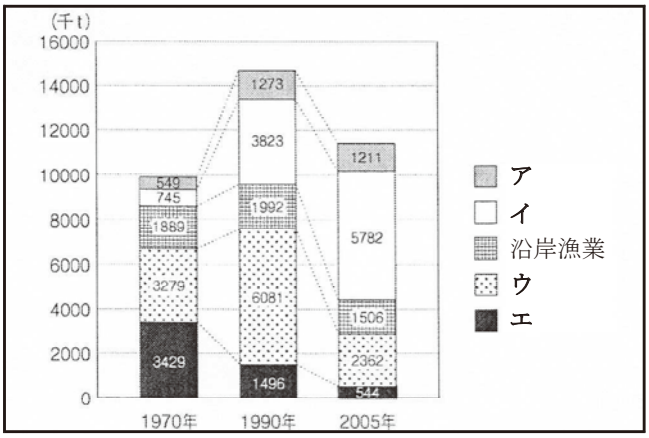

（「数字で見る日本の百年」改訂第5版 農林水産省ﾎｰﾑﾍﾟｰｼﾞから作成）

【２】　次の**表Ⅰ・表Ⅱ**を見て，各問いに答えなさい。

表Ⅰ

時代	で　き　ご　と
江戸	異国船打払令が発布される
	A
明治	五箇条の御誓文が出される
	B
	大日本帝国憲法が発布される
	C
大正	第一次世界大戦に参戦する
	D
昭和	ポツダム宣言を受け入れる
	E
	サンフランシスコ平和条約に調印する

表Ⅱ

「歴史上の人物」

（あ）　ペリーが来航し，開国を求めるアメリカ大統領の国書を幕府に差し出した。

（い）　代議士（衆議院議員）である田中正造が，足尾銅山鉱毒事件の解決をめざした。

（う）　連合国軍最高司令官マッカーサーが，日本政府に改革を指示した。

（え）　原敬が首相となり，本格的な政党内閣を成立させた。

（お）　福沢諭吉が，『学問のすゝめ』を書いた。

問１　**表Ⅰ**のB～Eのそれぞれの期間には，表Ⅱの(い)～(お)に書かれたことがらのいずれかが当てはまる。このうちCの期間に当てはまるものを記号で答えなさい。なおAの期間には，(あ)があてはまる。

問２　Aの期間に関して，①・②の問いに答えなさい。

①　右の絵は1840年に中国（清）で起こった戦争の様子を描いたものである。次の文中の（ a ），（ b ）に適する語句を答えなさい。ただし，（ b ）には国名を答えなさい。

清による（ a ）の取り締まりに対して，（ b ）は艦隊を派遣し，清を降伏させた。この（ a ）戦争の結果，清は（ b ）と不平等条約を結んだ。

②　ペリーの要求に応じ，幕府はアメリカとの間で，下田・函館の２港の開港などを認める条約を結んだ。この条約を何というか，答えなさい。

問３　Bの期間のわが国のできごとにあてはまるものを次の**ア～エ**から１つ選び，記号で答えなさい。

ア　国家総動員法が制定された。　　**イ**　関東大震災が起こった。

ウ　富岡製糸場がつくられた。　　**エ**　八幡製鉄所がつくられた。

問４　Ｃの期間のわが国のできごとにあてはまらないものを次の**ア～エ**から１つ選び，記号で答えなさい。

ア　治安維持法が制定された。　　**イ**　領事裁判権を撤廃した。
ウ　日英同盟が結ばれた。　　**エ**　三国干渉を受け入れた。

問５　Ｄの期間の世界のできごとにあてはまるものを次の**ア～エ**から１つ選び，記号で答えなさい。

ア　ルターが，ローマ教皇の方針を批判し，宗教改革を始めた。
イ　インドでガンディーが，非暴力・不服従を唱え，独立運動を始めた。
ウ　大韓民国と朝鮮民主主義人民共和国との間で，朝鮮戦争が始まった。
エ　孫文を中心とする革命勢力が，アジアで最初の共和国である中華民国を建国した。

問６　Ｅの期間に，わが国で地主と小作人の関係を改めるために実施された政策を何というか，答えなさい。

【３】　次の図は，人の一生と法律のかかわりを示したものである。各問いに答えなさい。



問１　図中の「出生」について，人は生まれるとともに基本的人権が保障される。人権の保障は，一人ひとりの個性を尊重し，尊厳をもって人間らしくあつかうという原理にもとづく。この原理を何というか，**ア～エ**から１つ選び，記号で答えなさい。

ア　個人の尊重　　**イ**　個性の尊重　　**ウ**　人間の尊重　　**エ**　基本的人権の尊重

問２　図中の「６歳」について，「義務教育の開始」は“教育を受ける権利”の保障によるもので，この権利は社会権に属する。次の**ア～エ**のうち，社会権に属するものとして適当でないものを１つ選び，記号で答えなさい。

ア　生存権　　**イ**　勤労の権利　　**ウ**　労働基本権　　**エ**　裁判を受ける権利

問３　図中の「14歳」について，未成年者でも刑罰を科すことが適当なときは裁判を受けることになる。犯罪行為に関する裁判を何というか，答えなさい。

問４　**問３**の裁判に関連して，次の①～③の説明に該当する語句の正しい組み合わせを**ア～エ**から１つ選び，記号で答えなさい。

①　犯罪を犯した疑いのある被疑者を裁判所に訴える役人
②　①が被疑者を裁判所に訴えること
③　裁判所に訴えられた被疑者

ア　①－原告　②－起訴　③－被疑者　　**イ**　①－検察官　②－起訴　③－被告人
ウ　①－原告　②－控訴　③－被告人　　**エ**　①－検察官　②－控訴　③－容疑者

問５　図中の「20歳」について，選挙の４原則の１つで，満20歳以上のすべての国民に選挙権が保障されているものを何というか，答えなさい。

問６　図中の「25歳・30歳」について，①～④の選挙制度は，衆議院議員と参議院議員のどちらの選挙制度か。正しい組み合わせを**ア～エ**から１つ選び，記号で答えなさい。

①	一つの選挙区で１人の代表を選ぶ小選挙区制	**ア**	衆議院議員－①　参議院議員－③
②	都道府県を単位として各１～５人を選ぶ選挙区制	**イ**	衆議院議員－①　参議院議員－④
③	全国を１つの単位とした比例代表制	**ウ**	衆議院議員－②　参議院議員－③
④	全国を11ブロックに分けて行う比例代表制	**エ**	衆議院議員－②　参議院議員－④

問７　**問６**に関連して，地方公共団体において①衆議院議員・②参議院議員の被選挙権の年齢と同じ組み合わせとして正しいものを**ア～エ**から１つ選び，記号で答えなさい。

ア　①－都道府県知事　②－都道府県会議員　　**イ**　①－市町村長　②－市町村会議員
ウ　①－市町村会議員　②－都道府県会議員　　**エ**　①－市町村長　②－都道府県知事

問８　図中の「親権」について，“教育の義務が発生”とは，正確には“(　　)教育を受けさせる義務”という。(　　)に適する語句を答えなさい。

問９　**問８**の義務は，国民の三大義務の１つである。あとの２つの義務を何というか，それぞれ**漢字２字**で答えなさい。

【４】　次の文は，Ｙさんが昨年中国で開催されたAPEC(アジア太平洋経済協力会議)首脳会議のニュースをテレビで見て興味・関心をもち，調べたものの一部です。各問いに答えなさい。

> APECは，a世界の人口の約40%，貿易額の約44%を占める世界最大の b地域統合として，貿易や投資の自由化と円滑化，経済や技術の協力などの活動を行っています。
> ところで，APECは，1989年，c オーストラリア首相の提唱により，日本・dアメリカ・カナダ・韓国・オーストラリア・ニュージーランド及び当時の e東南アジア諸国連合加盟６か国の計12か国が参加して発足しました。その後も参加する国・地域が増えました。2014年には f 中国でAPEC首脳会議が開催されました。首脳会議では，貿易や投資の自由化と円滑化をさらに進め，アジア太平洋地域の将来像とその実現に向けた取り組みについて話し合いがされました。

問１　下線部 a について，次のグラフは，ある国の人口構成を示したものである。2010年の日本の人口構成を**ア～ウ**から１つ選び，記号で答えなさい。

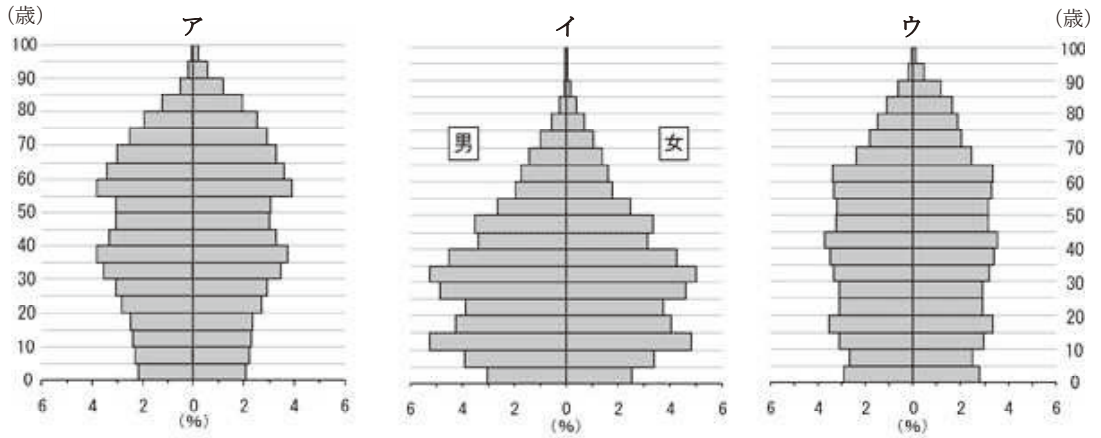

(総務省統計局ホームページから作成)

問２　下線部 b について，①・②の問いに答えなさい。

①　現在，ヨーロッパの28か国が加盟している地域統合を何というか，答えなさい。

② ①の加盟国内ではロンドンとパリを結ぶ高速鉄道が整備されている。それを何というか，答えなさい。

問３ 下線部ｃについて，この国は，1900年代はじめから1970年代にかけてヨーロッパ系以外の移民を制限する政策がとられたが，この政策を何というか，次の**ア～エ**から1つ選び，記号で答えなさい。

ア アパルトヘイト　**イ** 移民制限政策　**ウ** 多文化主義　**エ** 白豪主義

問４ 下線部ｄについて，この国へ働く場所と高い賃金を求めて，中部・南アメリカなどから移民してきた人々を何というか，答えなさい。

問５ 下線部ｅについて，①・②の問いに答えなさい。

① 東南アジア諸国連合をアルファベット５字で答えなさい。

② ①加盟国の一つであるフィリピンの首都マニラの気温と降水量を表したものを，次の**ア～エ**から１つ選び，記号で答えなさい。

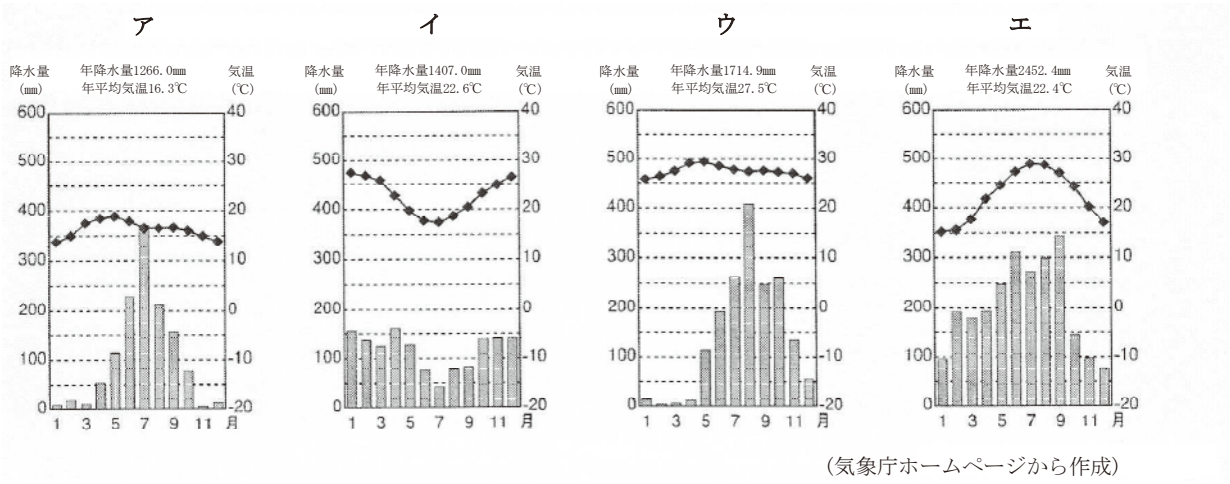

（気象庁ホームページから作成）

問６ 下線部ｆについて，中国の沿岸部のシェンチェンやアモイなど，外国の資本や技術を導入するために開放した地域を何というか，答えなさい。

【５】 次の**図Ⅰ～Ⅳ**を見て，各問いに答えなさい。

図Ⅰ［石包丁］



図Ⅱ［正倉院の工芸品］

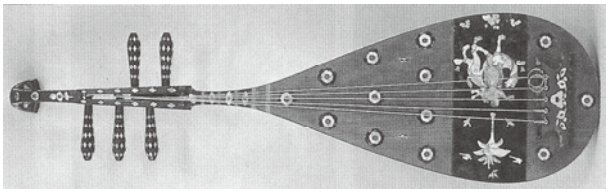

図Ⅲ［勘合］

図Ⅳ［朱印船］



問１ **図Ⅰ**について，次の①・②の問いに答えなさい。

① この石器がつくられた目的として適当なものを，次の**ア～エ**から１つ選び，記号で答えなさい。

ア 戦いで武器として用いるため。　**イ** マンモスなどの狩りを行う道具として用いるため。

ウ 稲の穂を刈り取る道具として用いるため。　**エ** 祭りのための宝物として用いるため。

② この石器が用いられた時期の世界のできごととして正しいものを，次の**ア～エ**から１つ選び，記号で答えなさい。

ア 秦の始皇帝が中国を統一する。　　**イ** メソポタミア文明が起こる。
ウ チンギス・ハンがモンゴルを統一する。　　**エ** ルターが宗教改革を始める。

問２　**図Ⅱ**について，次の①・②の問いに答えなさい。

① この工芸品が納められている正倉院が建てられた時期の日本の社会の様子として適切なものを，次の**ア～エ**から１つ選び，記号で答えなさい。

ア　冠位十二階が定められ，才能や功績のある個人を，役人に取り立てようとした。
イ　領地を仲立ちとした御恩と奉公による主従制度が生まれた。
ウ　墾田永年私財法が制定され，新しく開墾した土地であれば永久の私有が認められた。
エ　実力のある者が力をのばし，上の身分の者にうちかつ下剋上の風潮がみられた。

② 右の略地図は，正倉院が建てられた時期の世界の様子を示している。略地図中の**X**と**Y**で示した国の組み合わせとして正しいものを，次の**ア～エ**から１つ選び，記号で答えなさい。

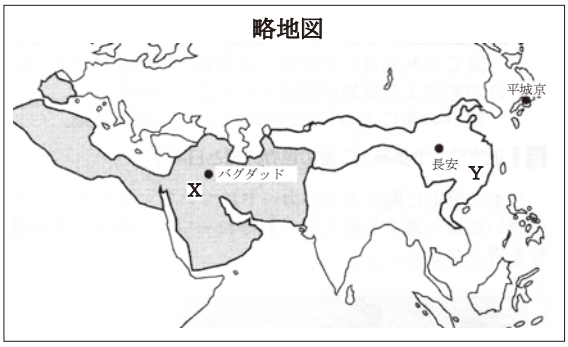

ア　**X**－イスラム帝国　　**Y**－宋
イ　**X**－イスラム帝国　　**Y**－唐
ウ　**X**－ローマ帝国　　**Y**－宋
エ　**X**－ローマ帝国　　**Y**－唐

問３　**図Ⅲ**について，次の①・②の問いに答えなさい。

① この札による中国との貿易の背景として最も関係の深いことがらを，次の**ア～エ**から１つ選び，記号で答えなさい。

ア　地租　　**イ**　防人　　**ウ**　倭寇　　**エ**　踏絵

② この札による中国との貿易を始めた人物と関係のあるできごとを，次の**ア～エ**から１つ選び，記号で答えなさい。

ア　慈照寺銀閣を建てた。　　**イ**　六波羅探題を設けた。
ウ　刀狩を実施した。　　**エ**　鹿苑寺金閣を建てた。

問４　**図Ⅳ**について，次の①・②の問いに答えなさい。

① この船による貿易で，日本町が多くつくられた地域として適当なものを，次の**ア～エ**から１つ選び，記号で答えなさい。

ア　東南アジア　　**イ**　西アジア　　**ウ**　南アメリカ　　**エ**　西ヨーロッパ

② この船による貿易が行われていた時期の世界のできごとを，次の**ア～エ**から１つ選び，記号で答えなさい。

ア　アメリカの独立戦争がおこる。　　**イ**　ムハンマドがイスラム教を開く。
ウ　イギリスでピューリタン革命がおこる。　　**エ**　中国で太平天国の乱がおこる。

【6】　図Ⅰ・図Ⅱを見て，各問いに答えなさい。

図Ⅰ

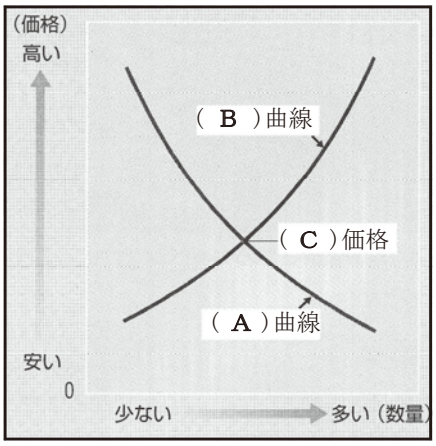

図Ⅱ

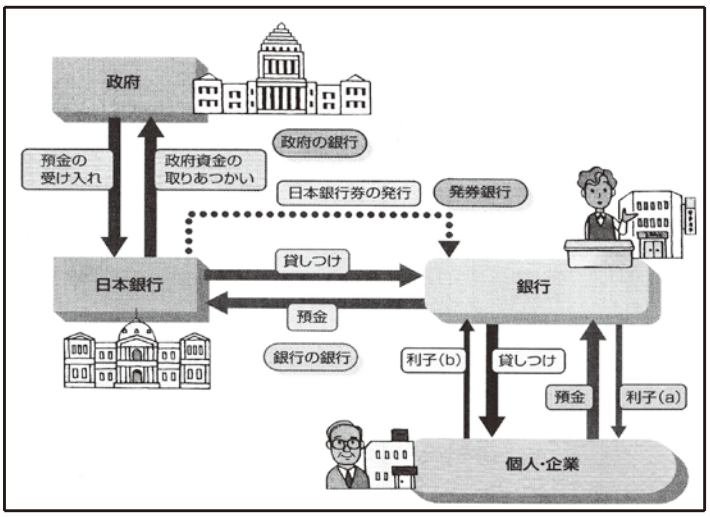

問１　次の文を参考にして，図Ⅰの(A)～(C)に適する語句をそれぞれ**漢字２字**で答えなさい。

> 商品には必ず価格がつけられている。消費者は価格を見て，買おうとする量，すなわち(A)量を決め，他方，生産者は価格を見て，売ろうとする量，すなわち(B)量を決める。価格が上がると企業は増産して利潤を増やそうとし，反対に消費者は価格が上がるとその商品を購入する量を減らそうとする。(A)量が(B)量をうわ回っている場合には価格が上昇し，逆の場合には価格が下落する。
>
> (A)量と(B)量が一致したとき，価格の変化はやみ，市場は均衡状態に入る。この(A)量と(B)量を一致させる価格を(C)価格という。

問２　問１に関連して，少数の大企業が生産や販売市場を支配している状態では価格競争が弱まるが，このような状態を“寡占”という。この読みをひらがなで答えなさい。

問３　図Ⅱについて，銀行と個人・企業の間に見られる貸し借りを何というか，**漢字２字**で答えなさい。

問４　図Ⅱについて，次の文中の(①)～(⑤)に適する語句を，次の**ア～コ**からそれぞれ選び，記号で答えなさい。

> わたしたちは，日本銀行の発行する紙幣(日本銀行券)や(①)の発行する硬貨などを，普通「貨幣」と呼んでいる。しかし，紙幣や硬貨の(②)通貨は通貨全体の１割以下に過ぎない。大半は(③)通貨である。
>
> 銀行は人々の貯蓄を(③)として集め，それを個人や企業に貸し出すことを仕事としている。(③)の一部は(②)化されるが，多くは(③)通貨として流通する。
>
> 日本銀行は(④)として銀行の資金量を変化させ，銀行の貸し出し量を操作することによって景気や物価に影響を与えようとする(⑤)を行う。

ア　仮想	**イ**　現金	**ウ**　電子	**エ**　預金	**オ**　金融庁
カ　財務省	**キ**　金融政策	**ク**　財政政策	**ケ**　都市銀行	**コ**　中央銀行

平成27年度
後期入学試験

社会科解答用紙

【1】

問 1	問 2		
	①	②	
	海岸	都道府県名	記号

問 3				問 4	
A	B	C	D	①	②

【2】

問 1	問 2			問 3
	①		②	
	a	b		

問 4	問 5	問 6

【3】

問 1	問 2	問 3	問 4	問 5	問 6

問 7	問 8	問 9	
		の義務	の義務

【4】

問 1	問 2		問 3	問 4
	①	②		

問 5		問 6
①	②	

【5】

問 1		問 2		問 3		問 4	
①	②	①	②	①	②	①	②

【6】

問 1			問 2	問 3
A	B	C		

問 4				
①	②	③	④	⑤

受験番号	名前

合計点	